PEMERINTAH PROPINSI DAERAH KHUSUS IBUKOTA JAKARTA
DINAS PENDIDIKAN

SMP NEGERI 231 JAKARTA

JL. Raya Tugu Semper Cilincing Telp : 021- 4400643
JAKARTA UTARA

UJIAN SEKOLAH

TAHUN PELAJARAN 2011-2012

LEMBAR SOAL

Mata Pelajaran	:	**PKn**
Satuan Pendidikan	:	**Sekolah Menengah Pertama (SMP)**
Hari/Tanggal	:	**Selasa, 27 Maret 2012**
Alokasi Waktu	:	**10.00 – 11.30 (90 menit)**

PETUNJUK UMUM

1. *Tulis nomor Anda pada lembar jawaban*
2. *Perikasalah dan bacalah soal-soal dengan teliti sebelum Anda menjawabnya*
3. *Dahulukan menjawab soal-soal yang Anda anggap mudah*
4. *Kerjakan pada lembar jawaban yang disediakan*
5. *Hitamkan kotak pada huruf jawaban yang Anda anggap benar dengan memakai pinsil* ***2B***
6. *Apabila ada jawaban yang akan diganti, hapuslah jawaban yang salah dengan karet penghapus sampai bersih, kemudian isi dengan jawaban yang Anda anggap benar.*

Contoh :

a. Sebelum di jawab

b. Sesudah di jawab

c. Sesudah diperbaiki

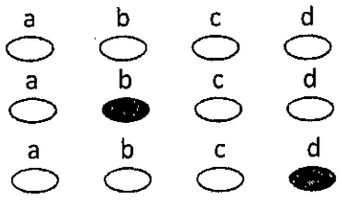

PETUNJUK KHUSUS :

Soal No 1 s.d 50 hitamkanlah bulatan pada huruf a, b, c, atau d yang Anda anggap benar pada lembar jawaban,dan untuk Soal Essay nomor 51 s.d 55 kerjakan dengan benar !

1. Pentingnya norma-norma dalam masyarakat adalah, agar kehidupan masyarakat ....
   a. aman dan layak
   b. disiplin dan makmur
   c. tertib dan tentram
   d. tercukupi sandang dan pangan

2. Perhatikan gambar berikut !



Sebelum masuk kelas siswa-siswi selalu bersalaman dengan gurunya, hal ini sesuai dengan norma ....
a. hukum
b. kesopanan
c. kesusilaan
d. agama

3. Perhatikan gambar berikut !

Perilaku yang dilakukan oleh pelajar yang terdapat dalam gambar di atas melanggar norma hukum, dan bertentangan dengan UUD 1945 pasal ....
a. 26 ayat 1
b. 27 ayat 1
c. 29 ayat 2
d. 30 ayat 1

4. Perhatikan pernyataan berikut :
   1. Lahirnya negara republik Indonesia
   2. Berakhirnya tata hukum kolonial
   3. Hancurnya pemerintahan Jepang
   4. Berlakunya tata hukum nasional

   Arti penting Proklamasi bagi bangsa Indonesia ditunjukkan parnyataan nomor ....

   a. 1, 2, 3
   b. 1, 2, 4
   c. 1, 3, 4
   d. 2, 3, 4

5. Pernyataan :
   1. Memilih dan mengangkat presiden dan wakil presiden
   2. Mengesahkan dasar negara
   3. Mengangkat menteri negara
   4. Membentuk BP-KNIP

   Dari pernyataan di atas yang merupakan hasil sidang PPKI tanggal 18 Agustus 1945 ditunjukkan nomor ...
   a. 1, 2, 3
   b. 1, 2, 4
   c. 1, 3, 4
   d. 2, 3, 4

6. Pernyataan :
   1. Mempertahankan kemerdekaan
   2. Menikmati hasil pembangunan
   3. Menghormati jasa pahlawan
   4. Mengisi kemerdekaan dengan pembangunan

Dari pernyataan di atas sikap setia terhadap proklamasi kemerdekaan RI ditunjukkan nomor ...
a. 1, 2, 3
b. 1, 2, 4
c. 1, 3, 4
d. 2, 3, 4

7. Pernyataan :
   1. perilaku tidak adil
   2. diskriminatif
   3. status sosial
   4. taat pada perauran

Dari pernyataan di atas yang menentukan latar belakang lahirnya perundangan HAM ditunjukkan nomor ...
a. 1, 2, 3
b. 1, 2, 4
c. 1, 3, 4
d. 2, 3, 4

8. Perhatikan kolom berikut :

1	2	3	4
- Pemantauan - Klarifikasi perkara	- Perlindungan masyarakat - Rekontruksi pelanggaran	- Pengkajian dan penelitian - Penyuluhan	- Pemantauan - Mediasi

Dari kolom di atas, yang berisi fungsi komnas HAM terdapat pada kolom ....
a. 1 dan 2
b. 1 dan 3
c. 2 dan 3
d. 3 dan 4

9. Perhatikan gambar di bawah ini !

Gambar menyampaikan pendapat dimuka umum ini merupakan kemerdekaan mengeluarkan pendapat dengan bertanggung jawab, yang sesuai dengan UUD 1945 pasal ....
a. 26 ayat 1
b. 27 ayat 1
c. 28 ayat 1
d. 29 ayat 1

10. Pernyataan :
    1. Menghormati aturan moral yang diakui umum
    2. Menjaga keamanan dan ketertiban umum
    3. Mengutamakan kepentingan orang lain
    4. Menjaga keutuhan dan kesatuan bangsa

Dari pernyataan di atas kewajiban dan tanggung jawab warganegara yang menyampaikan pendapat dimuka umum ditunjukkan nomor ....

a. 1, 2, 3
b. 1, 2, 4
c. 1, 3, 4
d. 2, 3, 4

11. Nilai-nilai Pancasila merupakan suatu dasar nilai serta norma untuk mengatur pemerintahan negara merupakan pengertian
dari Pancasila sebagai ....
    a. Idiologi negara
    b. Dasar negara
    c. Pandang hidup bangsa
    d. Sumber hukum

12. Perhatikan kolom berikut :

1	2	3	4
- Sumber hukum - Demokrasi Indonesia	- Idiologi negara - Pandanga hidup bangsa	- Dasar negara - Sumber hukum	- Cita-cita rakyat Indonesia - Kebanggaan Indonesia

Dari kolom di atas, yang berisi fungsi Pancasila bagi bangsa Indonesia terdapat pada kolom ....

a. 1 dan 2
b. 1 dan 3
c. 2 dan 3
d. 3 dan 4

13. Pernyataan :
    1. Mengembangkan sikap tenggang rasa dan tepa selira
    2. Berani membela kebenaran dan keadilan
    3. Memelihara kebiasaan gotong royong
    4. Tidak semena-mena terhadap orang lain

Nilai-nilai yang terkandung dalam sila ke dua dari Pancasila ditunjukkan pada nomor ...

a. 1, 2 dan 3
b. 1, 2 dan 4
c. 1, 3 dan 4
d. 2, 3 dan 4

14. Perhatikan Gambar berikut !



Gambar di atas adalah upacara pengibaran bendera peringatan 17 Agustus, kegiatan tersebut mencerminkan pengamalan Pancasila, sila ke ....

a. Dua
b. Tiga
c. Empat
d. Lima

15. Contoh sikap positif dalam mengembangkan sila kelima dalam kehidupan masyarakat adalah ...
    a. Tidak memaksakan suatu agama pada orang lain
    b. Memelihara kegiatan gotong royong
    c. Tidak semena-nema kepada orang lain
    d. Bangga bertanah air dan berbangsa Indonesia

16. Pernyataan :
    1. UUD RIS
    2. UUD 1945
    3. UUD Sementara 1950
    4. UUD Gotong Royong

    Konstitusi yang pernah berlaku di Indonesia ditunjukkan oleh nomor ....
    a. 1, 2 dan 3
    b. 1, 2 dan 4
    c. 1, 3 dan 4
    d. 2, 3 dan 4

17. Pernyataan :
    1. Mentri negara tidak bertanggung jawab kepada presiden
    2. Mentri negara diangkat dan diberhentikan oleh presiden
    3. Presiden adalah kepala pemerintahan
    4. Presiden mengangkat duta dan konsul

    Dari pernyataan di atas ciri-ciri pemerintahan Presidensil ditunjukkan nomor ....
    a. 1, 2, 3
    b. 1, 2, 4
    c. 1, 3, 4
    d. 2, 3, 4

18. Pernyataan :
    1. Merugikan bangsa dan negara
    2. Kian banyak masyarakat yang miskin
    3. Persatuan dan kesatuan akan pudar
    4. Barang dan jasa semakin mahal

    Dari pernyataan di atas yang menunjukkan alasan mengapa korupsi perlu diberantas ditunjukkan nomor
    a. 1, 2, 3
    b. 1, 2, 4
    c. 1, 3, 4
    d. 2, 3, 4

19. Pernyataan :
    1. UUD 1945
    2. Keputusan Presiden
    3. UU/Perpu
    4. Peraturan Pemerintah
    5. Intruksi Presiden

    Tata urutan yang tepat perundang-undangan RI menurut UU no.10 tahun 2004 adalah ...
    a. 1, 2 dan 3
    b. 1, 2 dan 4
    c. 1, 3 dan 4
    d. 2, 3 dan 5

20. Hakikat demokrasi Pancasila adalah ...
    a. Paham demokrasi yang bersumber pada kepribadian dan falsafah hidup bangsa Indonesia
    b. Paham dalam menjalankan kekuasaan pemerintahan yang didasari adat istiadat
    c. Paham pelaksanaan pemilihan umum pemerintah berdasarkan jujur dan adil
    d. Paham kekuasaan tertinggi yang di pegang oleh rakyat

21. Pernyataan :
    1. Adanya pelaksanaan hukum
    2. Memberikan jaminan HAM
    3. Adanya prinsip mayoritas suara
    4. Adanya kebebasan pers
    5. Partisipasi rakyat dalam pembangunan

    Ciri negara demokrasi ditunjukkan oleh nomor ...
    a. 1, 2 dan 3
    b. 1, 2 dan 4
    c. 1, 3 dan 4
    d. 2, 3 dan 5

22. Contoh pelaksanaan demokrasi di lingkungan masyarakat antara lain ....
    a. Menghargai perbedaan yang ada di sekolah
    b. Mau mendengar saran dari orang lain
    c. Mengutamakan kewajiban dari pada hak
    d. Ikut aktif dalam kegiatan diskusi kelas

23. Contoh kedaulatan ke dalam yang dilakukan bangsa Indonesia antara lain ...
    a. Membangun jembatan dengan menggunakan tenaga ahli dari Jepang
    b. Mengirimkan pasukan kontingen garuda dalam misi perdamaian dunia
    c. Pihak asing diberi keleluasaan dalam mengelola sumber daya alam yang ada
    d. Melaksanakan pembangunan di segala bidang tanpa campur tangan pihak asing

24. Data :
    1. DPR
    2. DPA
    3. MPR
    4. Jaksa Agung
    5. Presiden

    Lembaga negara Republik Indonesia yang diatur dalam UUD 1945 ditunjukkan oleh nomor ...
    a. 1, 2 dan 3
    b. 1, 3 dan 5
    c. 2, 3 dan 5
    d. 3, 4 dan 5

25. Perhatikan tabel berikut :

1	2	3	4
1. Peradilan 2. Membuat UU 3. Memberi gelar	1. Menyatakan perang 2. Memberi grasi 3. Mengajukan RAPBN	1. Mengesahkan RAPBN 2. Mengangkat Duta 3. Memilih anggota DPR	1. Mengangkat Duta 2. Mengangkat mentri Negara 3. Menerima tamu negara

    Pemegang kekuasaan eksekutif ditunjukan pada kolom :
    a. 1 dan 2
    b. 1 dan 3
    c. 2 dan 3
    d. 2 dan 4

26. Yang dimaksud dengan pembelaan negara adalah ....
   a. Semangat juang para pahlawan guna merebut kemerdekaan dari tangan penjajahan
   b. Melakukan suatu usaha untuk memajukan negara Indonesia dari ketinggalan teknologi dunia
   c. upaya mempertahankan eksistensi keberadaan wilayah negara yang dilakukan oleh setiap warga negara.
   d. Kewajiban bagi seluruh rakyat Indonesia untuk merebut kemerdekaan yang telah dirampas oleh bangsa penjajah

27. Perhatikan Gambar berikut !

Pada gambar di atas merupakan salah satu contoh membela negara, hal ini sesuai dengan UUD 1945 pasal .....
   a. 27 ayat 3
   b. 29 ayat 1
   c. 30 ayat 2
   d. 31 ayat 1

28.

Berdasarkan gambar di atas Komponen utama pertahanan negara dinegara Indonesia adalah ....
   a. Rakyat
   b. TNI dan POLRI
   c. Pertahanan sipil
   d. Menwa dan wanra

29. Pernyataan :
   1. Tidak membedakan suku dalam bergaul
   2. Menjaga keamanan dilingkungan tempat tinggal
   3. Mempunyai cita-cita menjadi TNI atau Polisi
   4. Mematuhi norma-norma yang belaku

Dari peryataan di atas yang termasuk bela negara di lingkungan masyarakat di tunjukkan oleh nomor ...
   a. 1, 2 dan 3
   b. 1, 2 dan 4
   c. 1, 3 dan 4
   d. 2, 3 dan 4

26. Yang dimaksud dengan pembelaan negara adalah ....
   a. Semangat juang para pahlawan guna merebut kemerdekaan dari tangan penjajahan
   b. Melakukan suatu usaha untuk memajukan negara Indonesia dari ketinggalan teknologi dunia
   c. upaya mempertahankan eksistensi keberadaan wilayah negara yang dilakukan oleh setiap warga negara.
   d. Kewajiban bagi seluruh rakyat Indonesia untuk merebut kemerdekaan yang telah dirampas oleh bangsa penjajah

27. Perhatikan Gambar berikut !

Pada gambar di atas merupakan salah satu contoh membela negara, hal ini sesuai dengan UUD 1945 pasal .....
   a. 27 ayat 3
   b. 29 ayat 1
   c. 30 ayat 2
   d. 31 ayat 1

28.

Berdasarkan gambar di atas Komponen utama pertahanan negara dinegara Indonesia adalah ....
   a. Rakyat
   b. TNI dan POLRI
   c. Pertahanan sipil
   d. Menwa dan wanra

29. Pernyataan :
   1. Tidak membedakan suku dalam bergaul
   2. Menjaga keamanan dilingkungan tempat tinggal
   3. Mempunyai cita-cita menjadi TNI atau Polisi
   4. Mematuhi norma-norma yang belaku

   Dari peryataan di atas yang termasuk bela negara di lingkungan masyarakat di tunjukkan oleh nomor ...
   a. 1, 2 dan 3
   b. 1, 2 dan 4
   c. 1, 3 dan 4
   d. 2, 3 dan 4

30. Pernyataan :
    1. untuk mempertahankan negara dari berbagai ancaman
    2. untuk menjaga keutuhan wilayah negara
    3. merupakan warisan dari para pahlawan
    4. merupakan kewajiban setiap warga Negara

    Dari pernyataan di atas yang termasuk menentukan pentingnya bala negara ditunjukkan oleh nomor ...
    a. 1, 2 dan 3
    b. 1, 2 dan 4
    c. 1, 3 dan 4
    d. 2, 3 dan 4

31. Pernyataan :
    1. Berani membela kebenaran dan keadilan
    2. Melaporkan kepada yang berwajib bila ada tindakan teror
    3. Ikut membela negara bila terjadi agresi dari luar
    4. Meminta bantuan kepada negara AS bila di serang musuh

    Dari pernyataan di atas yang termasuk sikap yang perlu dilakukan terhadap pihak-pihak yang ingin menghancurkan NKRI di tunjukan oleh nomor ...
    a. 1, 2 dan 3
    b. 1, 2 dan 4
    c. 1, 3 dan 4
    d. 2, 3 dan 4

32. Wewenang untuk mengatur sendiri pemerintahan dan kepentingan masyarakat sesuai dengan perundang-undangan
    merupakan pengertian dari ...
    a. Desentralisasi
    b. Daerah otonom
    c. Otonomi daerah
    d. Dekonsentrasi

33. Perhatikan penyataan di bawah ini :
    1. Politik luar negeri
    2. Moneter dan fiscal
    3. Agama
    4. Pendidikan
    5. Penanganan bidang kesehatan

    Pernyataan di atas yang merupakan kewenangan pemerintah pusat dalam otonomi daerah adalah nomor ...
    a. 1, 2 dan 3
    b. 1, 3 dan 5
    c. 2, 3 dan 4
    d. 3, 4 dan 5

34. Pernyataan :
    1. UU No. 30 Tahun 2003
    2. UU No. 28 Tahun 2004
    3. UU No. 22 Tahun 1999
    4. UU No. 32 Tahun 2004
    5. UUD 1945 pasal 18

Pernyataan di atas yang merupakan Dasar hukum pelaksanaan otonomi daerah adalah nomor ...
a. 1, 2 dan 3
b. 1, 3 dan 5
c. 2, 3 dan 4
d. 3, 4 dan 5

35. Pernyataan :
1. Meningkatkan kemakmuran rakyat daerah tersebut
2. Adanya harapan bantuan dari pemerintahan pusat
3. Mendorong guna memberdayakan masyarakat
4. Pengembangan kehidupan demokrasi

Tujuan otonomi daerah ditunjukan pada nomer ...
a. 1, 2 dan 3
b. 1, 2 dan 4
c. 1, 3 dan 4
d. 2, 3 dan 4

36. Pernyataan :
1. Fungsi Anggaran
2. Fungsi Legislasi
3. Fungsi Parlementer
4. Fumgsi Pengawasan

Tujuan otonomi daerah ditunjukan pada nomer ...
a. 1, 2 dan 3
b. 1, 2 dan 4
c. 1, 3 dan 4
d. 2, 3 dan 4

37. Penyerahan wewenang, hak pemerintahan oleh pemerintah kepada daerah otonom untuk mengatur dan mengurus urusan
pemerintahan dalam kerangka NKRI disebut azas ....
a. Tugas pembantuan
b. Sentralisasi
c. Dekonsentrasi
d. Desentalisasi

38. Pernyataan :
1. Memiliki pendapatan asli daerah yang cukup memadai
2. Suluruh masyarakat mampu melaksanakan pemerintahan
3. Kondisi sosial budaya dan politik mendukung
4. Mendapat persetujuan mentri dalam negeri
5. Mendapat persetujuan dari DPRD setempat
Dari pernyataan di atas syarat-syarat pemekaran daerah otonomi ditunjukkan oleh nomor ...
a. 1, 2 dan 3
b. 2, 3 dan 4
c. 1, 3 dan 5
d. 3, 4 dan 5

39. Untuk menjadi calon wakil kepala daerah TK I (Wakil Gubernur), seseorang harus dicalonkan oleh ....
a. Presiden
b. DPRD
c. Rakyat
d. Partai politik

40. Bentuk partisipasi masyarakat dalam kebijakan publik antara lain ....
   a. Memberikan saran bila diminta oleh DPR
   b. Menyampaikan aspirasi kepada wakil rakyat
   c. Memberikan usulan bila menguntungkan dirinya
   d. Mengadakan demontrasi agar usulannya diterima

41. Perhatikan Gambar berikut :






1. Bumi 2. Alat Komunikasi 3. Pertumbuhan Ekonomi 4. Kendaraan

Dari gambar di atas yang merupakan 2 faktor pendorong globalisasi adalah gambar ....
   a. 1 dan 2
   b. 1 dan 3
   c. 2 dan 3
   d. 3 dan 4

42. Pernyataan :
   1. Negara Indonesia merupakan negara berkembang
   2. Bertujuan meningkatkan kesejateraan rakyat
   3. Keinginan menjadi negara adi kuasa dan besar
   4. Ketidak mampuan mengelola negara
   5. Keterbatasan teknologi dan modal

Pernyataan di atas yang merupakan arti penting bangsa Indonesia ikut serta dalam globalisasi di tunjukkan nomor ....
   a. 1, 2 dan 3
   b. 2, 3 dan 4
   c. 1, 2 dan 5
   d. 3, 4 dan 5

43. Pernyataan :
   1. Majunya teknologi terutama dibidang informasi dan teknologi
   2. Masuknya budaya asing yang menjadi mode anak anak muda
   3. Terjadinya kesenjangan ekonomi sebagai akibat kekalahan dalam penguasaan teknologi
   4. Kadar dan kualitas kejahatan semakin canggih dengan bantuan teknologi informasi
   5. Semakin menurunnya sumber daya alam yang vital, seperti air, hutan dll

Dari pernyataan di atas, dampak negatif globalisasi dalam kehidupan masyarakat Indonesia pada nomor ...
   a. 1, 2 dan 3
   b. 2, 3 dan 4
   c. 1, 3 dan 5
   d. 3, 4 dan 5

44. Nilai budaya asing yang dapat di ambil bagi bangsa Indonesia dalam era globalisasi antara lain ....
   a. Sifat konsumtif
   b. Disiplin kerja
   c. Pemilian langsung
   d. Tarian break dance

45. Ada tiga hal yang perlu diperioritasikan dalam menghadapi era globalisasi yaitu ...

a	Sumber daya manusia IPTEK keterampilan
b	IMTAK IPTEK keterampilan
c	IMTAK SDM ketampilan
d	IMTAK IPTEK SDM

46. Manfaat yang dapat di ambil dari globalisasi bagi bangsa Indonesia dalam bidang politik antara isu-isu demokrasi, hak
asasi manusia serta yang tidak kalah pentingnya adalah ....
   a. Teknologi informasi
   b. Hubungan diplomatik
   c. Masalah kemanusiaan
   d. Politik luar negeri

47. Cara hidup yang berorientasi pada mutu atau memberikan penghargaan tinggi terhadap mutu disebut ...
   a. Budaya unggul
   b. Globalisasi budaya
   c. Budaya Indonesia
   d. Budaya Bangsa

48. Perhatikan data di bawah ini :

1	2	3	4
1. Disiplin 2. Tidak takut gagal	1. Memiliki harta 2. Selalu berdoa	1. Miliki kemampuan berfikir 2. Dapat mengenali diri	1. Menentukan potensi diri 2. Mengetahui stategi lawan

Data yang berisi kelebihan sikap dan perilaku seseorang untuk berprestasi ditunjukkan pada kolom :
   a. 1 dan 2
   b. 1 dan 3
   c. 2 dan 3
   d. 3 dan 4

49. Perhatikan gambar berikut :

1

Rano Karno

2

Agnes Monica

3

Chris Jhon

4

Irfan Badim

Ditunjukan oleh nomor berapakah dari empat gambar warga negara Indonesia di atas yang telah berprestasi di tingkat Internasional ?

a. 1 dan 2
b. 1 dan 3
c. 2 dan 3
d. 3 dan 4

50. Sikap yang sangat penting oleh segenap warga negara Indonesia agar cita-cita bangsa Indonesia dapat tercapai antara
lain ...
    a. Bangga sebagai bangsa dan bertanah air Indonesia
    b. Menjalin kerjasama dengan negara lain yang dapat membantu Indonesia
    c. Selalu bersaing tehnologi dengan negara lain yang lebih maju dari negara Indonesia
    d. Menempatkan kepentingan bangsa dan negara di atas kepentingan pribadi atau golongan

ESSAY

51. Sebutkan 3 akibat bila mengeluarkan pendapat yang dilakukan tanpa batas dan tidak bertanggung jawab !

52. Jelaskan tiga contoh sikap demokrasi dalam pelaksanaan musyawarah untuk mencapai mufakat !

53. Jelaskan 3 Pentingnya bela negara Indonesia !

54. Apa Pengertian dari politik luar negeri bebas dan aktif ?

55. Sebutkan tiga pentingnya prestasi diri bagi keunggulan bangsa Indonesia !